Tematy i zadania na czwarty tydzień (kl. 4a)

PROSZĘ WSZYSTKIE TEMATY ZAPISYWAĆ W ZESZYCIE I WYKONYWAĆ PODANE ZADANIA.

1) **TEMAT:** Ułamki i liczby mieszane na osi liczbowej.

Proszę przeczytać temat z podręcznika str. 158.

Proszę obejrzeć też filmiki: https://www.youtube.com/watch?v=W6nvjcfU0jo

https://www.youtube.com/watch?v=obqumWez1AE

Proszę przeczytać poniższe ćwiczenie:

Ćwiczenie A. Krasnoludki maszerują po osi liczbowej z punktu *A* do punktu *B*. Jaką część drogi przeszedł krasnoludek czerwony, a jaką zielony?

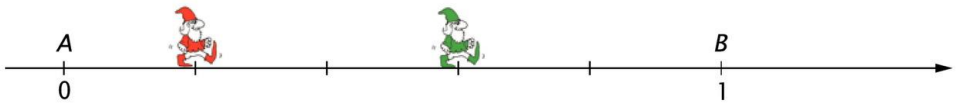

Ćwiczenie A: (proszę przepisać do zeszytu)

Odcinek jednostkowy między 0 a 1 podzielono na pięć równych części. Zatem wszystkie ułamki będą miały w mianowniku 5.

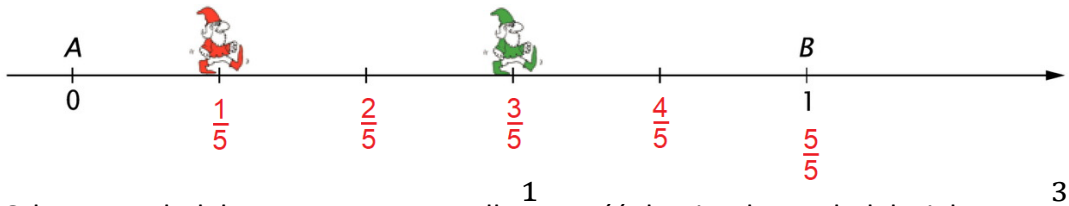

Odp. Krasnoludek czerwony przeszedł $\frac{1}{5}$ część drogi, a krasnoludek zielony – $\frac{3}{5}$ część drogi.

Odcinek jednostkowy to odległość między dwiema kolejnymi liczbami naturalnymi.

Na osi liczbowej można też zaznaczyć liczby mieszane:

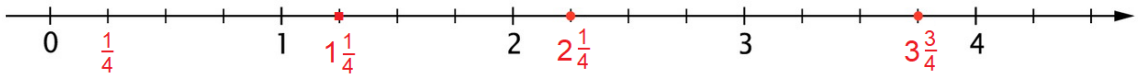

Zad. 1 str. 158 (proszę zrobić w zeszycie)

Zanim odczytasz liczby zaznaczone na osi liczbowej, policz, na ile części podzielono odcinek jednostkowy (między 0 a 1). Osi liczbowej nie trzeba przerysowywać do zeszytu.

Np. : b)

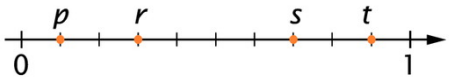

Odcinek jednostkowy podzielono na 10 równych części. Zatem:

p = $\frac{1}{10}$, r = $\frac{3}{10}$, uzupełnij samodzielnie: s = ... , t = ...

a) a = ... , b = ... , c = ...

Zad. 4 str. 159 (proszę zrobić w zeszycie)

Odcinek jednostkowy to odległość między dwiema kolejnymi liczbami naturalnymi.

Np. : a = $\frac{1}{3}$, b = $1\frac{1}{3}$, pozostałe przykłady uzupełnij samodzielnie.

Zadanie: (proszę przepisać do zeszytu)

Zaznacz na osi liczbowej ułamki: $\frac{2}{7}$, $\frac{5}{7}$, $1\frac{3}{7}$, $1\frac{6}{7}$, $2\frac{4}{7}$.

Aby zaznaczyć powyższe ułamki na osi liczbowej, musimy najpierw odcinek jednostkowy (między 0 a 1) podzielić na 7 równych części.

Proszę narysować oś liczbową i między 0 a 1 odmierzyć 7 kratek, potem między 1 a 2 też 7 kratek itd. Zaznacz kropkami powyższe ułamki i podpisz je.

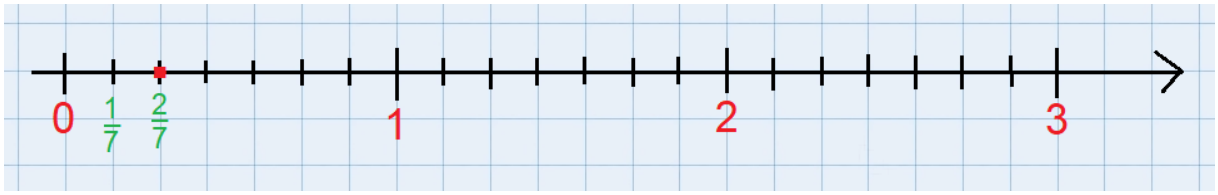

2) **TEMAT:** Odczytywanie i zaznaczanie ułamków zwykłych na osi liczbowej.

Proszę zrobić w ćwiczeniach zielonych zad. 1, 2, 3 str. 54 oraz zad. 5 str. 55.

Zad. 4 str. 54 i zad. 6 str. 55 w ćwiczeniach zielonych – dla chętnych.

Kochani, życzę Wam i Waszym rodzinom zdrowych i spokojnych świąt Wielkanocnych.

W TYM TYGODNIU NIC NIE WYSYŁAMY.

Pozdrawiam – Małgorzata Romaniuk